STATION 1

ASSOCIE LES FRACTIONS ÉQUIVALENTES ET TROUVE L'INTRUS

4 /28

8 /10

12 / 48

12 / 15

21 / 24

11 / 77

6 /24

8 /12

7 / 8

STATION 2

TRANSFOME LES DESSINS EN FRACTIONS ET EFFECTUE LES OPÉRATIONS.

A.

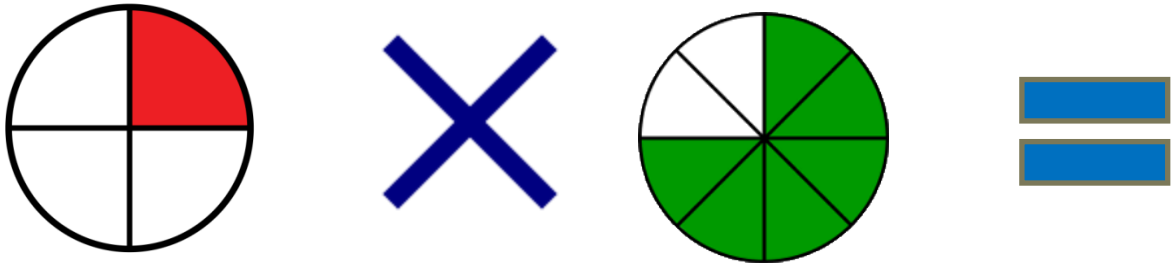

B.

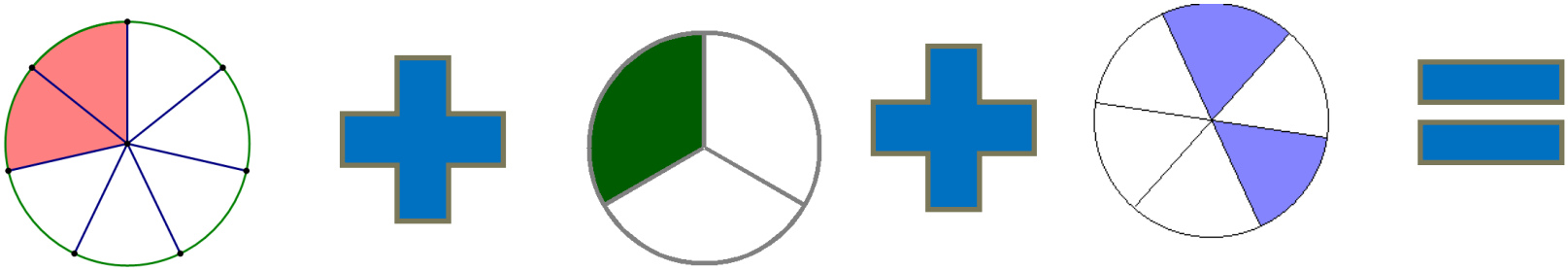

C.

STATION 3

A. En français, 1/6 des élèves font une vidéo pour leur projet final, alors que 2/5 des élèves font un diaporama. Quelle fraction des élèves ne font ni une vidéo ni un diaporama? Simplifie ta réponse.

B. Pour le nouveau spectacle de Luc Langevin, le Centre Culturel a vendu le 1/5 des billets par téléphone, le 3/8 en ligne et le reste au guichet. Quelle fraction représente la fraction des billets vendus au guichet?

STATION 4

PLACE LES FRACTIONS DANS L'ORDRE DÉCROISSANT



21/30

9 /10

37/50

22/25

2/5

STATION 5

ASSOCIE LES ÉLÉMENTS DE LA COLONNE DE GAUCHE AUX FRACTIONS ÉQUIVALENTES DE LA COLONNE DE DROITE.

1. Jimy a obtenu une note de 15/35.	A. 48%
2. 15% des élèves ont oublié leur matériel.	B. 24 / 30
3. Chez Illusion, ils ont vendu 120 planches à neige sur un total de 250.	C. 6/14
4. 80% des chansons sur NRJ sont anglophones.	D. 3/20



STATION 6

1. **Anne et Léo en visite chez leurs parents, décident de rapporter des biscuits à leur appartement. Anne se rend à la cuisine et prend le trois quart des biscuits. Léo passe ensuite et prend la moitié des biscuits <u>restant</u>. Quelle fraction des biscuits reste-t-il?**

2. **À l'occasion d'un projet social, un groupe d'adolescents bénévoles participe au nettoyage d'une école. La responsable du groupe offre de la pizza à tout le monde.**

   Louis veut manger la moitié d'une pizza; Kitty un tiers; John les cinq huitièmes; Zoé les deux tiers; Noémie, un sixième, Olivia, un quart et Bobby les trois sixièmes.

   a)Combien la responsable devra-t-elle commander de pizzas?

   Chaque pizza coûte 21,98$ (taxes et pourboire inclus).

   b) Combien ce repas coûtera-t-il à la responsable?

STATION 7

1- Ernestine a un contenant de 15 litres de jus. Elle veut remplir le plus de petites bouteilles de 3/5 de litre. Combien de petites bouteilles obtiendra-t-elle?

(Fais tous les calculs pour résoudre cette situation.)

2- Quelles fractions sont représentées par les lettres sur la droite numérique suivante ?

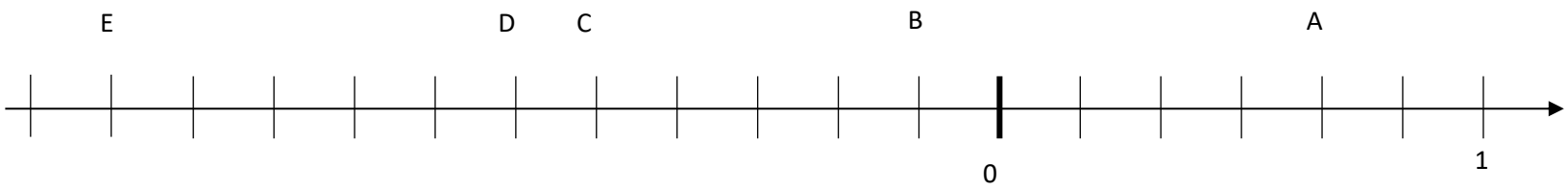

3- Gustave partage une tarte avec ses cousins et sa cousine. Il donne le 1/12 à Liboire, le 1/6 à Napoléon et le le 1/3 à Alphonsine.
Qu'elle fraction de la tarte reste-t-il pour Gustave?

NOMS DES COÉQUIPIERS : _____ _____



STATION 1

Fractions équivalentes : _____ _____ _____ _____ **Intrus :** _____

STATION 2

1. **Calculs :** **Réponse :** _____

2. **Calculs :** **Réponse :** _____

3. **Calculs :** **Réponse :** _____

STATION 3

1. **Calculs :** **Réponse :** _____

2. **Calculs :** **Réponse :** _____

STATION 4

Calculs (mettre au même dénominateur) : Réponse : _____

STATION 5

1. _____ 2. _____ 3. _____ 4. _____

STATION 6

1. Calculs : Réponse : _____

2. Calculs : Réponse : _____

STATION 7

1. Calculs : Réponse : _____

2. Calculs : Réponse : _____